La Salle U.E.P. Hermano Miguel Cuenca	**INSTRUMENTO DE EVALUACIÓN ADMISIÓN PARA ASPIRANTES**	**AÑO LECTIVO 2020– 2021** **IEVA-ACA-031**

Subnivel/Nivel:	**Asignaturas:** Matemáticas/Lengua y Literatura	**FILA: D**
Año al que aspira: EDUCACIÓN GENERAL BÁSICA	**BACHILLERATO GENERAL UNIFICADO**	
1º ☐ **2º** ☐ **3º** ☐ **4º** ☐ **5º** ☐ **6º** ☐ **7º** ☐ **8º** ☐ **9º** ☐ **10º** ☐	**1º** ▌ **2º** ☐ **3º** ☐	
Docente que aplica: _____	**Número de dificultades:** **20M**	**Período:** ADMISIONES
Apellidos: _____	**Nombres:** _____	**CALIFICACIÓN:**
Fecha: _____ / _____ / 2021	**TIEMPO: 60 MINUTOS**	

INSTRUCCIONES GENERALES:

- Escriba claramente sus nombres y apellidos, curso, paralelo y fecha en la que realiza esta evaluación.
- Dispone de 60 minutos para desarrollar la evaluación.
- Únicamente podrá utilizar esferográfico y/o lápiz según la indicación del profesor, para escribir las respuestas.
- Cometer deshonestidad académica es una falta grave, de darse será sancionada de acuerdo al Reglamento a la LOEI, por lo que se recomienda rendir su evaluación escrita con total honestidad.
- Lea detenidamente cada pregunta.
- Desarrolle la prueba con letra legible, evite realizar tachones, borrones, enmendaduras o utilizar corrector; las respuestas que estén en estas condiciones no serán consideradas para la calificación.
- Cuide la presentación y ortografía.
- Al concluir vuelva a leer toda la evaluación (pregunta y respuesta) y entregue.

1D. Seleccione la opción correcta de acuerdo al siguiente enunciado: (1 DIFICULTAD)
El promedio de un número entero y su antecesor es 6.5. El sucesor de dicho número entero es:

A.6

B.7

C.8

D.14

2D. Seleccione la opción correcta de acuerdo al siguiente enunciado: (1 DIFICULTAD)
Si una tienda de ropa compra chaquetas a 30 dólares cada una y al venderlas obtiene un 40% de ganancia sobre el precio de compra, ¿cuánto paga un cliente al comprar una de esas chaquetas?

A.$ 70

B.$ 42

C.$ 35

D.$ 12

3D. Complete el enunciado: (2 DIFICULTADES)

-El corte de una recta con el eje “y” se denomina _____, mientras que los cortes con el eje “x” se los conoce como _____ de la función

4D. Seleccione la opción correcta de acuerdo al siguiente enunciado: (1 DIFICULTAD)
El promedio de un número entero y su antecesor es 6.5. El sucesor de dicho número entero es:

A.6

B.7

C.8

D.14

5D. Analice el siguiente gráfico de función lineal y complete los siguientes enunciados: (6 DIFICULTADES)

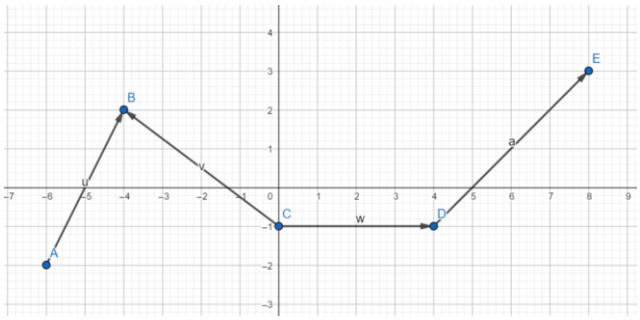

a) Los intervalos crecientes son: _____

b) El intervalo decreciente es: _____

c) Los ceros de la función por aproximación son: _____

6D. Seleccione la opción correcta de acuerdo al siguiente enunciado: (1 DIFICULTAD)

Al desarrollar y efectuar las operaciones $(a^2 - b^2) - (a - b)^2$ se obtiene como resultado:

A. $-2ab - 2b^2$
B. $2ab - 2b^2$
C. $2ab$
D. 0

7D. Seleccione la opción correcta de acuerdo al siguiente enunciado: (2 DIFICULTADES)

Al racionalizar la siguiente expresión, $\frac{7x}{\sqrt{x}}$ se obtiene

A. $7\sqrt{x}$

B. $\sqrt{7x}$

C. $\frac{7\sqrt{x}}{x}$

D. $\frac{\sqrt{7x}}{x}$

8D. Seleccione la opción correcta de acuerdo al siguiente enunciado: (2 DIFICULTADES)

-Al resolver el siguiente sistema de ecuaciones por el cualquiera de los métodos: sustitución, reducción, igualación o determinantes, las coordenadas del punto de intersección de las dos rectas es:

$$y = 3x - 3$$
$$y = -x + 1$$

A. (4,-1)
B. (3,1)
C. (1,0)
D. (-1,3)

9D. Seleccione la opción correcta de acuerdo al siguiente enunciado: (2 DIFICULTADES)

En el Parque de la Madre ubicado en la ciudad de Cuenca, se tiene planeado construir una pista para practicar caminata, ciclismo o patinaje y tendrá el diseño que se muestra a continuación.

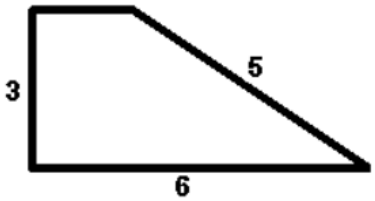

Si las longitudes que se muestran están expresadas en kilómetros y Luis, un estudiante de primer año de bachillerato, realizó todo el recorrido en su bicicleta, la distancia que recorrió fue:

A. 14 km
B. 16 km
C. 18 km
D. 20 km

10D. RESUELVA EL SIGUIENTE EJERCICIO Y SELECCIONE LA RESPUESTA CORRECTA. (2 DIFICULTADES)
En un cuadrado de lado 10 centímetros se inscribe otro más pequeño que apoya sus vértices en los puntos medios de los lados del cuadrado mayor. ¿Cuál es el perímetro del cuadrado menor?

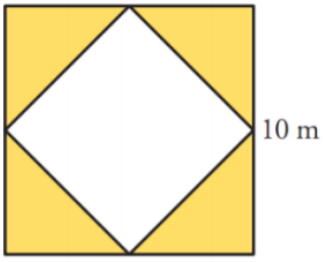

A. 28,80 cm
B. 28,28 cm
C. 28,88 cm
D. 28,82 cm

11D. Relacione la columna de la izquierda con las características que pertenece a cada escritura y escriba en el casillero los literales y el número que corresponde. (3 DIFICULTADES)

ESCRIBA	CARACTERÍSTICAS
1.- Egipcia	a.- Fue una de las primeras en desarrollar un sistema de escritura.
2.- Mesopotámica	b.- Las grafías de la escritura se remontan a más de 3000 años.
3.- China	c.- Surgió hace 5.000 años
	d.- Sistema de más de 700 signos que representan seres u objetos.
	e.- Es considerada una manifestación artística muy compleja y refinada.
	f.- Situada en medio oriente actual Irak.
	g.- Era considerada como la escritura sagrada.
	h.- los primeros símbolos comenzaron como imágenes o pictogramas que representaban objetos, seres o ideas.
	i.- Los párrafos se escribían en columnas o líneas.

RESPUESTA:

12D Escriba verdadero o falso en las líneas presentadas de acuerdo a la información. (5 DIFICULTADES)

- Un **artículo de opinión** es un artículo en el cual la persona que lo escribe no pone sus perspectivas ni sus razonamientos acerca de algún tema. **_____.**
- En los **artículos de opinión** la responsabilidad cae en la persona que escribe el artículo y no en la editorial que lo publica. **_____.**
- Las características de un artículo de opinión son: **Tema, Título, Opinión, Autor. _____.**
- Los **verbos en infinitivo** son aquellas palabras que no manifiestan acciones y que no están determinados por un tiempo, ya sea presente, pasado, futuro, o ningún otro. **_____.**
- Los verbos irregulares son aquellos que al conjugarse alteran su lexema, el gramema, o ambas partes a la vez, omitiendo la modificación natural que les correspondería según el modo y el tiempo. **_____.**

13D. Escriba el nombre de los vicios o figuras de lenguaje según corresponda. Seleccione las opciones de los casilleros (5 DIFICULTADES)

- Es una disonancia entre algunos elementos de las palabras," se traduce en mal sonido". **_____.**
- Es el fenómeno de construcción lingüístico, en el que se altera el orden lógico o sintáctico de una frase. **_____.**
- Palabras o expresiones que se utilizan popularmente de forma incorrecta, que representan un error en el uso adecuado del lenguaje. **_____.**
- La falta de claridad en los enunciados. **_____.**
- Es un fenómeno gramatical, que permite la coherencia entre géneros opuestos (femenino y masculino) y los géneros singular y plural. **_____.**

CACOFONÍA	**SILEPSIS**	**HIPÉRBATON**	**VULGARISMOS**	**ANFIBOLOGÍA**

14D. En las siguientes oraciones realice el análisis respectivo y escriba a qué tipo de oraciones subordinadas corresponde.

a. Lo hice cuando me dijiste. **_____.**
b. Me gusta que vengas pronto. **_____.**
c. Los estudiantes, los cuales han estudiado, aprobarán. **_____.**

ADVERBIAL DE TIEMPO	**SUSTANTIVADAS**	**ADJETIVAS**

15D Lea las siguientes oraciones, escriba el conector correcto en el espacio presentado para que la oración tenga sentido. (5 DIFICULTADES)

1. De ahora en adelante debes decidir..... confías en mí.....mantienes tus resquemores.

a) tanto si como si
b) si o si
c) cuánto si
d) cuándo es decir, si
e) cómo cuándo

2. El programa estuvo sustentado por una enorme ofensiva sostenida.....analistas, politólogos.....intelectuales que validaron.....la sociedad el modelo neoliberal.

a) tanto por como con
b) con e sobre
c) por e ante
d) entre e por
e) por e a

3. ..... es necesario que me lo expliques.....yo lo entendí.....que tú.

a) Siempre pero tanto como
b) Tampoco puesto que al igual
c) No ya que antes
d) Si porque menos
e) Como si antes

4. El amor.....la belleza es inseparable del sentimiento.....la muerte.

a) a en
b) por contra
c) de sin
d) con de
e) sin con

5. El amor nos muestra .....dónde podemos estar enfermos dentro de los límites de la salud. El estado amoroso..... es un mal orgánico.....metafísico.

a) desde siempre pero
b) de no mi
c) por nunca o
d) en o o bien
e) desde no sino

16D. Escriba dentro del paréntesis el número desde el 1 al 5 para ordenar el proceso para escribir un ensayo. (5 DIFICULTADES)

- Buscar información acerca del tema definido consultando diversas fuentes. **( )**
- Buscar argumentos que apoyen la posición o punto de vista **( )**
- Determinar el tema acerca del cual escribirás. **( )**
- Establecer el propio punto de vista en relación con un tema. **( )**
- Precisar la polémica que existen en relación con el tema sobre el que escribirás. **( )**

17D. Lea las oraciones presentadas, y escriba la expresión correcta de acuerdo a la figura o vicio del lenguaje según corresponda. (3 DIFICULTADES)

ELIPSIS

Cada año voy a casa de mi suegra en navidad, aunque en año nuevo no. ( )
Carlos es constructor y Roberto analista de datos. ( )
Carmen lleva la ensalada y Betty el postre. ( )

18D. Lea las oraciones presentadas, y escriba la expresión correcta de acuerdo a la figura o vicio del lenguaje según corresponda. (3 DIFICULTADES)

HIPERBATÓN

A Dios gracias = _____
Ajedrez Juega de lunes a viernes = _____
Atónito me dejas = _____

19D. Con base a la información presentada sobre los géneros periodísticos lea detenidamente y seleccione la información que se le pide. Escriba donde corresponde cada información con relación a la columna. (5 DIFICULTADES)

OPINIÓN
ROSA MONTERO
10 ABR 2012 - 00:01
CET

COLUMNA

Empeorando

Nunca hay que bajar la guardia en la defensa de nuestros valores, aunque parezcan sólidos y obvios. Con nuestra habitual estrechez de miras, tendemos a pensar que el momento histórico que vivimos es el más moderno y sofisticado de todos los tiempos. Como si el progreso fuera. Algo inevitable y nosotros mismos la cúspide del de sarrollo humano. Nada más lejos de la verdad; los logros sociales son resbaladizos y volátiles y a menudo se producen regresiones: por ejemplo, la situación de la mujer era mejor a principios del siglo XIX que 100 años más tarde. Nunca hay que bajar la guardia en la defensa de nuestros valores, aunque parezcan sólidos y obvios. A veces los pueblos eligen la involución e incluso el suicidio, como sucedió con la Alemania nazi.

Digo todo esto ante la coincidencia en las últimas semanas de noticias homófobas. La muerte en el civilizado Chile de Daniel Zamudio, de 24 años, tras haber sido torturado durante seis horas por ser gay; la entrada en vigor de la nueva ley rusa contra los homosexuales, a quienes compara con los pedófilos; o las palabras del obispo de Alcalá de

Henares, que no pasarían de ser una mentecatez petarda si no fuera porque las dijo en una misa, o sea, revestido de su poder de brujo, y porque para soltar una homilía así tiene que sentirse socialmente amparado y acompañado. Sí, me temo que damos demasiadas cosas por seguras. Por ejemplo, que los gays ya no tienen ningún problema en Occidente; o que el machismo está superado y hablar de los derechos de las mujeres es una anticualla; o que no existe ningún antisemitismo en España sino indignación por la cuestión palestina (y es verdad que el maltrato a los palestinos es un escándalo, pero además creo ver un antisemitismo creciente y preocupante). Y así, mientras nuestros valores se llenan de polvo arrumbados en una estantería, los retrógrados medran. Y, para peor, en el caldo de cultivo de una recesión. Cuidado con las crisis: engordan a las bestias

GUIÓN DE ANÁLISIS DE UNA COLUMNA DE OPINIÓN

Elementos	Complemente la información
Título	
Periodicidad	
Ubicación	

Extensión	
Autoría	
El guión refleja...	Complemente la información
Un comentario personal sobre un tema de actualidad	
La combinación de elementos reales con elementos ficticios	
El emisor es un colaborador del periódico, pero que no pertenece a su plantilla	
La estructura es libre, aunque breve	
Están muy presentes en su redacción recursos que conducen al humor: ironía, juegos de palabras...	

20D. Seleccione la RESPUESTA INCORRECTA del siguiente enunciado: (1 DIFICULTAD)

Obras del género narrativo:

Seleccione una:

A. La Ilíada

B. El alma en los labios

C. Lazarillo de Tormes

D. La Odisea

ELABORADO		APROBADO
COORDINADOR ACADÉMICO: MSC. RENÉ LÓPEZ	**SUBNIVEL/NIVEL:** BGU	**VICERRECTORA:** MGS. PATRICIA CEDILLO
FIRMA: **FECHA: 11/02/2021**		**FIRMA:** **FECHA:**